Tema 7. Las formas y las medidas que nos rodean

1.- Calcula el área total y volumen de los siguientes cilindros

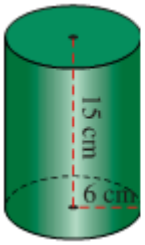

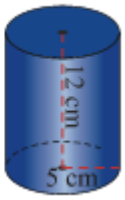

2.- Calcula el área y volumen de Un florero con forma cilíndrica tiene un diámetro interior de 12 cm y su altura es de 25 cm

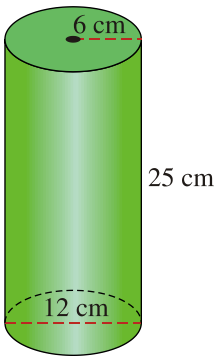

3.- Culcula el área y el volumen des siguiente cilindro

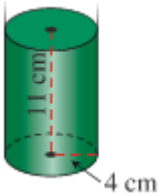

4.- Calcula el área total y el volumen de un cilindro sabiendo que la longitud de la circunferencia de su base es 31,4 cm y su altura 12 cm.

5.- Calcula el área total y el volumen de un cilindro sabiendo que el area de su base es 314 cm^2 y su altura 15 cm.