## Tema 7. Las formas y las medidas que nos rodean

1.- Calcula el área total y volumen del siguiente prisma

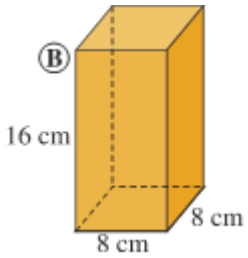


2.- Calcula el área total y volumen del siguiente prisma

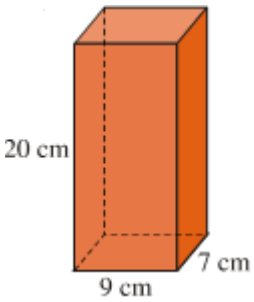


3.- Calcula el área total y volumen del siguiente prisma cuyas bases son triangulos equilaeros

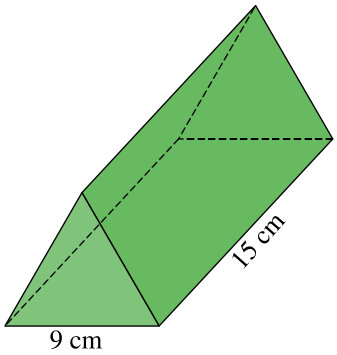


4.- Calcula el área lateral, el área total y el volumen de un prisma pentagonal sabiendo que su altura mide 9 cm.; el lado de la base son 2cm y la apotema de la base 1,5 cm.
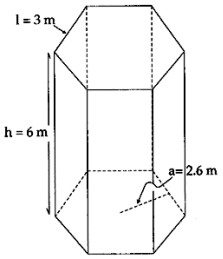
5.- Calcula el area total y el volumen de un prisma hexagonal sabiendo que su altura mide 6m; el lado de la base 3 m y la apotema de la base 2,6 m