TEMA 5. FICHA 1.

1. - Un triángulo equilátero tiene 8 cm de lado. ¿Cuál es su perímetro, en metros?

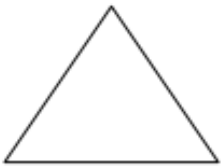

2. - El perímetro de un hexágono regular mide 0´066 dam. Halla el valor de cada lado en cm.

3. - Los lados de un triángulo miden: 15 cm, 0´18 m, 2´4 dm ¿Cuál es su perímetro, en mm?

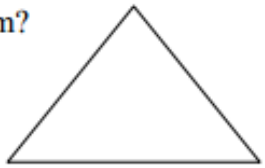

4. - El lado desigual de un triángulo isósceles mide 0´12 m.; uno de los otros dos lados mide 1´8 dm. Halla el perímetro en cm.

5. - Un triángulo equilátero tiene 48 cm. de perímetro. Averigua cada lado en metros.

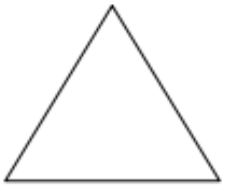

7. - Se quiere cercar un campo triangular, con una cerca que cuesta 45.000 ptas., a razón de 300 ptas. el m. ¿Cuál es su perímetro?

8. - Calcula en mm., el lado de un cuadrado de 108 cm. de perímetro.