Tema 3 Ficha 1.

1.- Dibuja las rectas que se indican en cada caso:
a) Dos rectas paralelas
b) Dos rectas perpendiculares
c) Dos rectas secantes no perpendiculares

2.- Completa

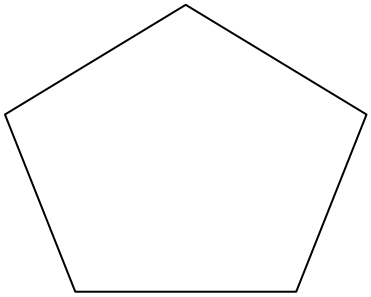

Lados: _____

Vertices: _____

Diagonales: _____

Angulos:_____

3.-Completa

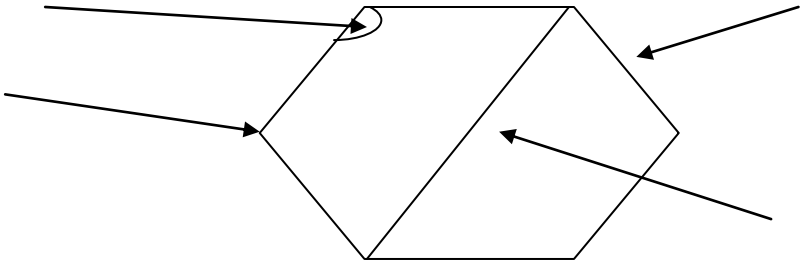

4.- Clasifica los siguientes triángulos según sus lados y según sus ángulos

_____

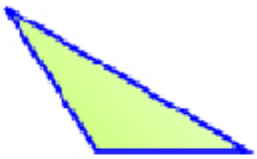

_____

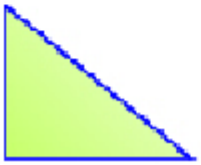

_____

_____