ACTIVIDADES TEMA 5 MEDIDA DE PROPORCIONALIDAD GEOMTRICA

1.- Completa

5.000 m=	hm	34567 mm=	hm
487 km=	dam	8765 cm	dam
2345 cm=	dm	45678 cm=	m
52 hm=	cm	456 dm=	dam
32 dam=	mm	345 dam=	km

2.- Completa

56789 m^2=	hm^2	87898654 mm^2=	hm^2
4 km^2=	dam^2	4567895 cm^2	dam^2
898765 cm^2=	dm^2	456654 cm^2=	m^2
52 hm^2=	cm^2	434456 dm^2=	dam^2
3 dam^2=	mm^2	343434345 dam^2=	Km^2

3.- Halla el perímetro y el área de un cuadrado de 3 m de lado.

4.- Halla el perímetro y el área de un rectángulo cuyos lados miden 4,5 m y 7,9 m respectivamente

5.- Calcula el perímetro y área de los siguientes triángulos

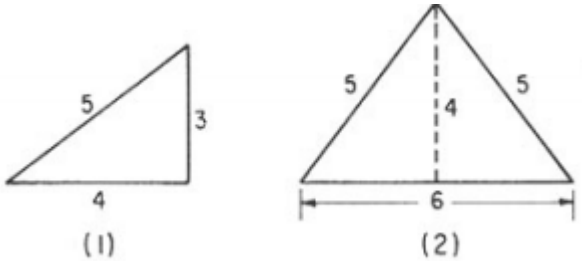

6.- Calcula el área y el perímetro del siguiente triangulo equilátero

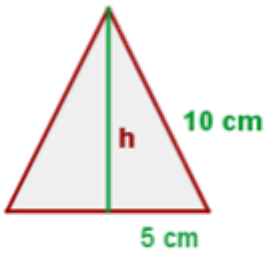

7.- Calcula el área y el perímetro del siguiente trapecio

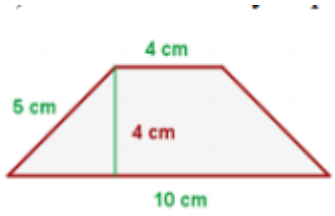

8.- Calcular el área y el perímetro de un rombo cuyas diagonales miden 30 y 16 cm, y su lado mide 17 cm.

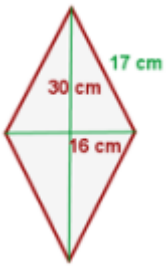

9.- Calcula el área y la longitud de un círculo de 2 metros de radio