1.- Que aparatos intervienen en la función de nutrición

2.- Indica cual es la función del aparato digestivo

3.- Escribe el nombre de glándulas del aparato digestivo

4.- El tubo digestivo está formado por:

5.- Indica las partes del aparato digestivo

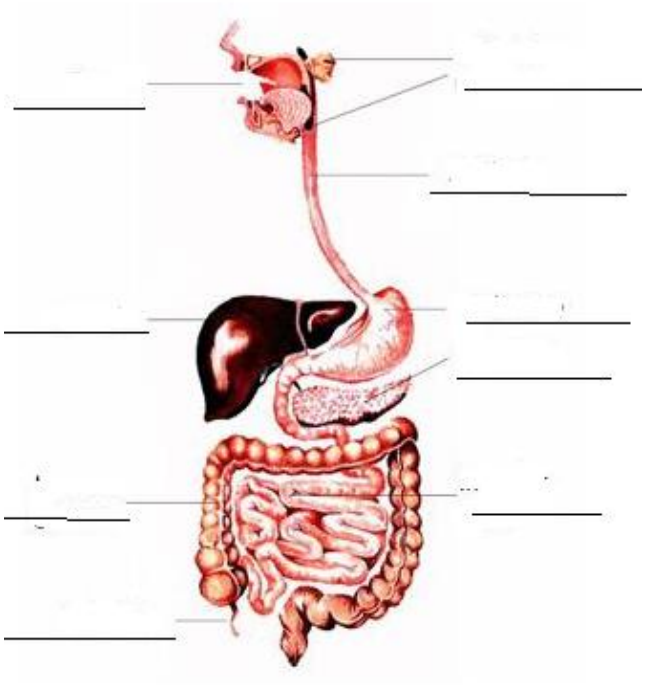

6.- Relaciona

1.- GLÚCIDOS O HIDRATOS DE CARBONO	A.- Aportan material para el crecimiento y reparación de los tejidos (carnes, pescados, lácteos, legumbres, frutos secos, etc..)
2.- LÍPIDOS O GRASAS	B.- Aportan energía y absorben vitaminas (aceites vegetales y grasas animales,etc..)
3.- PROTEÍNAS	C.- Aportan energía (frutas, cereales, legumbres, patatas.etc..)

1-___ 2-____ 3-____

7.- En qué consiste la respiración

8.-. Indica las partes del aparato respiratorio

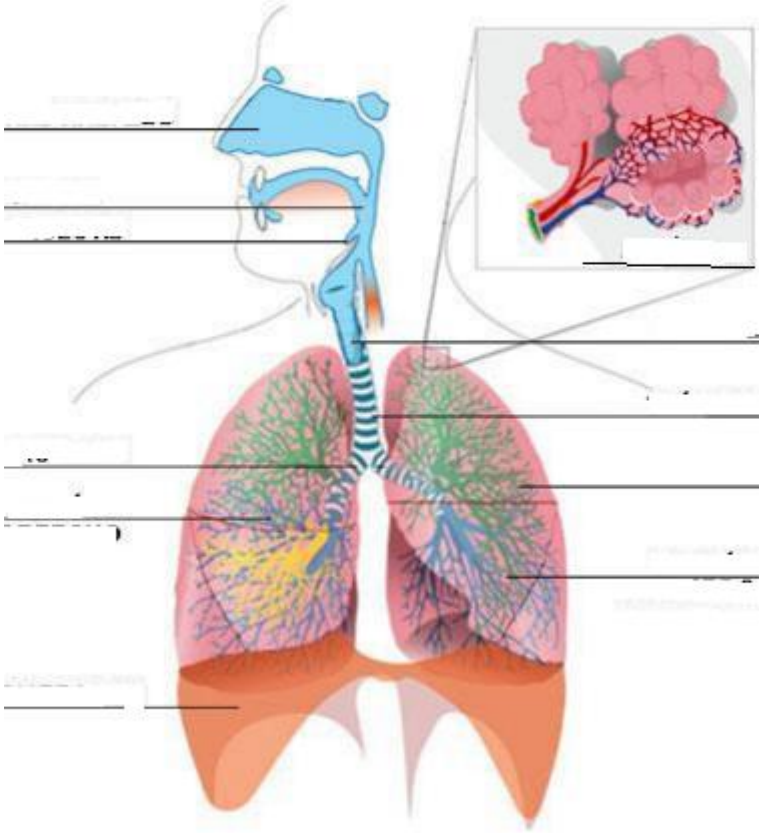

9.- Indica y explica brevemente los movimientos de la respiración

10.- Qué función realiza el aparato circulatorio en la nutrición

11.- Escribe las partes del corazón

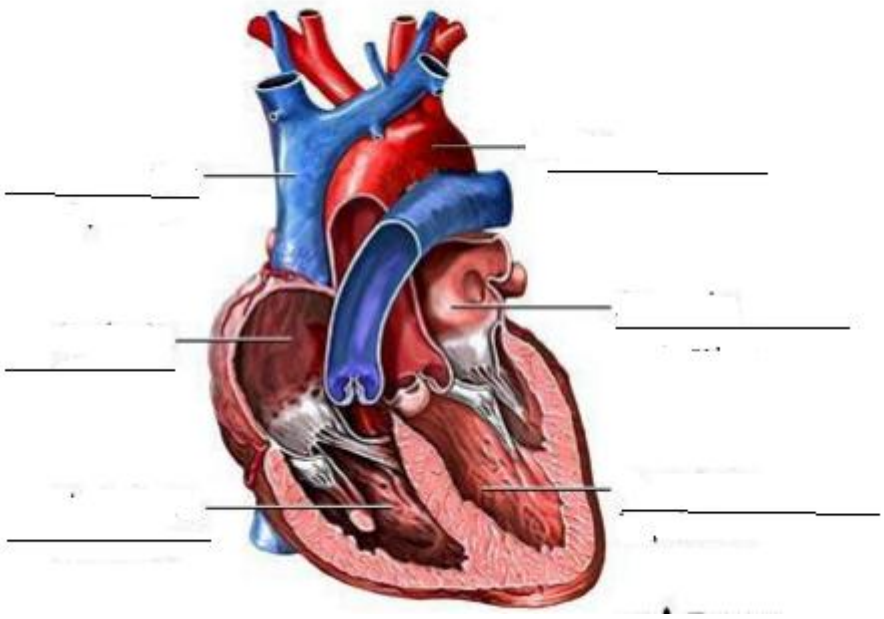

12.- Explica brevemente en que consiste la circulación menor y mayor

13.- Qué función realiza el aparato excretor dentro de la nutrición
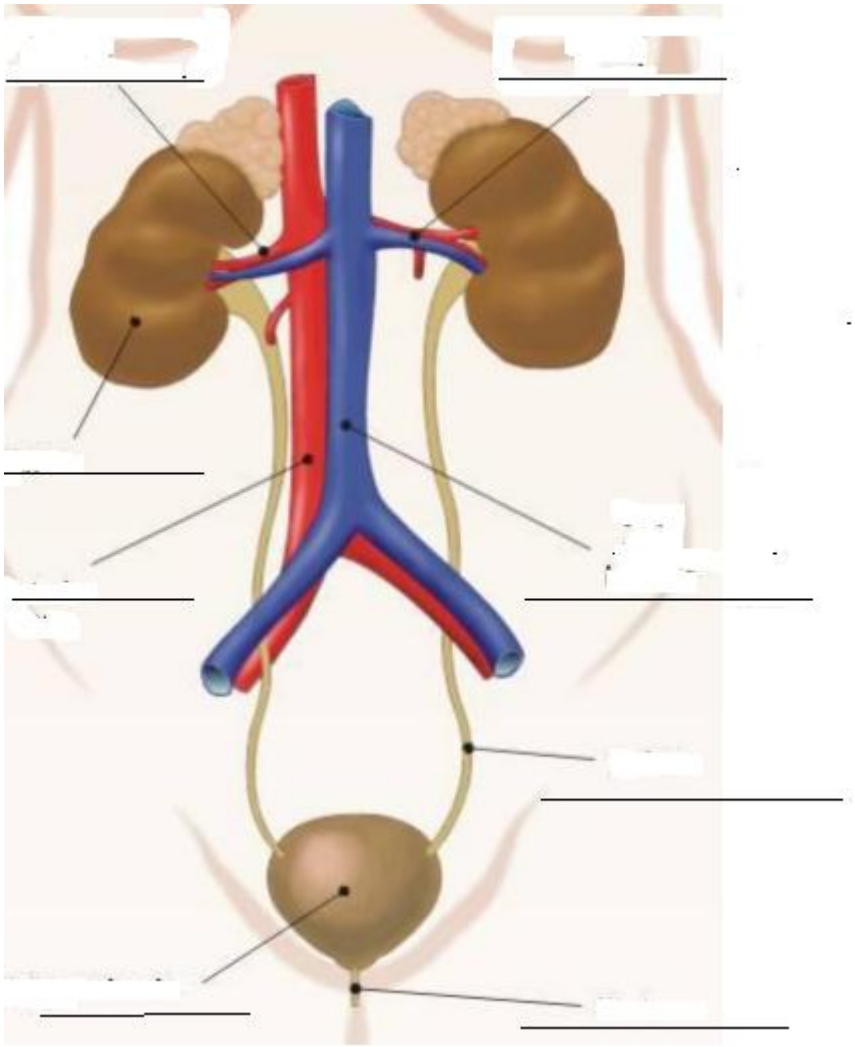
14.- Pon el nombre de las partes del aparato urinario