1.- Calcula la cantidad de pintura necesaria para pintar la fachada de este edificio sabiendo que se gastan 0.5 kg de pintura por m^2.

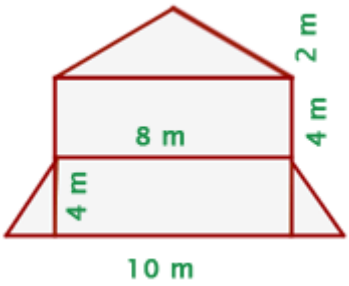

2.-Calcula el área de la parte sombreada, si el radio del círculo mayor mide 6 cm y el radio de los círculos pequeños miden 2 cm.

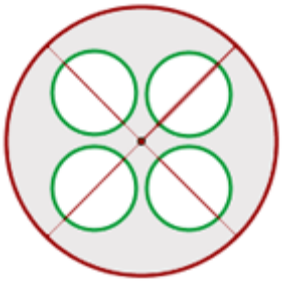

3.- En una plaza de forma circular de radio 250 m se van a poner 7 farolas cuyas bases son círculos de un 1 m de radio, el resto de la plaza lo van a utilizar para sembrar césped. Calcula el área del césped.

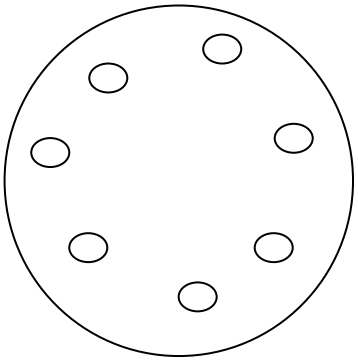
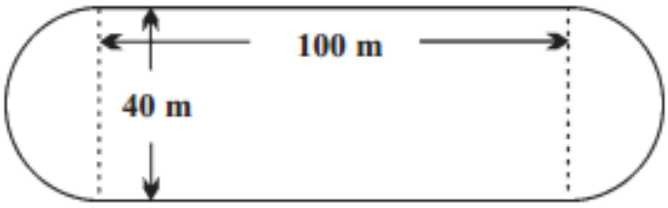
4.- Calcula el área de la siguiente figura: